Series S7PQR

SET~1

प्रश्न-पत्र कोड
Q.P. Code **59/7/1**

रोल नं.
Roll No. | | | | | | | | |

[ ]

परीक्षार्थी प्रश्न-पत्र कोड को उत्तर-पुस्तिका के मुख-पृष्ठ पर अवश्य लिखें।
Candidates must write the Q.P. Code on the title page of the answer-book.

राजनीति विज्ञान

POLITICAL SCIENCE

*निर्धारित समय : **3** घण्टे* — *अधिकतम अंक : **80***

*Time allowed : **3** hours* — *Maximum Marks : **80***

(I) कृपया जाँच कर लें कि इस प्रश्न-पत्र में मुद्रित पृष्ठ **23** हैं।

Please check that this question paper contains **23** printed pages.

(II) प्रश्न-पत्र में दाहिने हाथ की ओर दिए गए प्रश्न-पत्र कोड को परीक्षार्थी उत्तर-पुस्तिका के मुख-पृष्ठ पर लिखें।

Q.P. Code given on the right hand side of the question paper should be written on the title page of the answer-book by the candidate.

(III) कृपया जाँच कर लें कि इस प्रश्न-पत्र में **30** प्रश्न हैं।

Please check that this question paper contains **30** questions.

(IV) **कृपया प्रश्न का उत्तर लिखना शुरू करने से पहले, उत्तर-पुस्तिका में यथा स्थान पर प्रश्न का क्रमांक अवश्य लिखें।**

Please write down the Serial Number of the question in the answer-book at the given place before attempting it.

(V) इस प्रश्न-पत्र को पढ़ने के लिए 15 मिनट का समय दिया गया है। प्रश्न-पत्र का वितरण पूर्वाह्न में 10.15 बजे किया जाएगा। 10.15 बजे से 10.30 बजे तक परीक्षार्थी केवल प्रश्न-पत्र को पढ़ेंगे और इस अवधि के दौरान वे उत्तर-पुस्तिका पर कोई उत्तर नहीं लिखेंगे।

15 minute time has been allotted to read this question paper. The question paper will be distributed at 10.15 a.m. From 10.15 a.m. to 10.30 a.m., the candidates will read the question paper only and will not write any answer on the answer-book during this period.

सामान्य निर्देश :

निम्नलिखित निर्देशों को बहुत सावधानी से पढ़िए और उनका पालन कीजिए :

(i) *इस प्रश्न-पत्र में **30** प्रश्न हैं। **सभी** प्रश्न **अनिवार्य** हैं।*

(ii) *प्रश्न-पत्र **पाँच** खण्डों में विभाजित है –* ***खण्ड क, ख, ग, घ** एवं **ङ**।*

(iii) ***खण्ड क*** *– प्रश्न संख्या **1** से **12** तक बहुविकल्पीय प्रकार के प्रश्न हैं। प्रत्येक प्रश्न **1** अंक का है ।*

(iv) ***खण्ड ख*** *– प्रश्न संख्या **13** से **18** तक लघु-उत्तरीय प्रकार के प्रश्न हैं। प्रत्येक प्रश्न **2** अंकों का है। प्रत्येक प्रश्न का उत्तर **50** से **60** शब्दों में लिखिए।*

(v) ***खण्ड ग*** *– प्रश्न संख्या **19** से **23** तक दीर्घ-उत्तरीय प्रकार-I के प्रश्न हैं। प्रत्येक प्रश्न **4** अंकों का है। प्रत्येक प्रश्न का उत्तर **100** से **120** शब्दों में लिखिए।*

(vi) ***खण्ड घ*** *– प्रश्न संख्या **24** से **26** अवतरण, कार्टून तथा मानचित्र-आधारित प्रश्न हैं। प्रत्येक प्रश्न **4** अंकों का है। प्रत्येक प्रश्न का उत्तर यथानुसार लिखिए।*

(vii) ***खण्ड ङ*** *– प्रश्न संख्या **27** से **30** तक दीर्घ-उत्तरीय प्रकार-II के प्रश्न हैं। प्रत्येक प्रश्न **6** अंकों का है। प्रत्येक प्रश्न का उत्तर **170** से **180** शब्दों में लिखिए।*

(viii) *प्रश्न-पत्र में कोई समग्र विकल्प नहीं है। यद्यपि, कुछ प्रश्नों में आंतरिक विकल्प का प्रावधान दिया गया है। इन प्रश्नों में से केवल **एक** ही प्रश्न का उत्तर लिखा जाए।*

(ix) *इसके अतिरिक्त, ध्यान दें कि दृष्टिबाधित परीक्षार्थियों के लिए फोटो तथा मानचित्र आदि आधारित प्रश्नों के स्थान पर एक अन्य प्रश्न दिया गया है। इन प्रश्नों के उत्तर केवल दृष्टिबाधित परीक्षार्थी ही लिखें।*

General Instructions :

Read the following instructions very carefully and follow them :

(i) *This question paper contains **30** questions. **All** questions are **compulsory**.*

(ii) *Question paper is divided into **five** sections – **Sections A, B, C, D** and **E**.*

(iii) ***Section A** – Questions number **1** to **12** are Multiple Choice type questions. Each question carries **1** mark.*

(iv) ***Section B** – Questions number **13** to **18** are Short Answer type questions. Each question carries **2** marks. Write answer to each question in **50** to **60** words.*

(v) ***Section C** – Questions number **19** to **23** are Long Answer type-I questions. Each question carries **4** marks. Write answer to each question in **100** to **120** words.*

(vi) ***Section D** – Questions number **24** to **26** are Passage, Cartoon and Map-based questions. Each question carries **4** marks. Answer each question accordingly.*

(vii) ***Section E** – Questions number **27** to **30** are Long Answer type-II questions. Each question carries **6** marks. Write answer to each question in **170** to **180** words.*

(viii) *There is no overall choice in the question paper. However, an internal choice has been provided in few questions. Only **one** of the choices in such questions has to be attempted.*

(ix) *In addition to this, NOTE that a separate question has been provided for Visually Impaired candidates in lieu of questions having visual inputs, map etc. Such questions are to be attempted by Visually Impaired candidates only.*

खण्ड क

*प्रश्न संख्या **1** से **12** तक बहुविकल्पीय प्रकार के प्रश्न हैं। प्रत्येक प्रश्न **1** अंक का है।* *12×1=12*

1. यूरोपीय संघ के झण्डे (Flag) पर कितने सितारे हैं ?

(A) 8

(B) 10

(C) 12

(D) 14

2. निम्नलिखित में से कौन-सा एक देश आसियान का सदस्य ***नहीं*** है ?

(A) इंडोनेशिया

(B) श्रीलंका

(C) सिंगापुर

(D) थाईलैंड

3. निम्नलिखित को कालक्रमानुसार व्यवस्थित कीजिए :

(i) जनरल मुशर्रफ ने स्वयं को पाकिस्तान का राष्ट्रपति निर्वाचित करवा लिया।

(ii) बांग्लादेश का एक नए देश के रूप में उदय हुआ।

(iii) नेपाल को लोकतंत्र प्राप्त हुआ।

(iv) लिट्टे को परास्त कर दिया गया।

विकल्प :

(A) (ii), (i), (iii), (iv)

(B) (i), (ii), (iii), (iv)

(C) (ii), (iii), (i), (iv)

(D) (iv), (i), (ii), (iii)

SECTION A

*Questions number **1** to **12** are Multiple Choice type Questions. Each question carries **1** mark.* *12×1=12*

1. How many stars are there on the European Union flag ?

(A) 8

(B) 10

(C) 12

(D) 14

2. Which one of the following countries is ***not*** a member of ASEAN ?

(A) Indonesia

(B) Sri Lanka

(C) Singapore

(D) Thailand

3. Arrange the following in chronological order :

(i) General Musharraf got himself elected as the President of Pakistan.

(ii) Bangladesh emerged as a new country.

(iii) Nepal got democracy.

(iv) The LTTE was vanquished.

Options :

(A) (ii), (i), (iii), (iv)

(B) (i), (ii), (iii), (iv)

(C) (ii), (iii), (i), (iv)

(D) (iv), (i), (ii), (iii)

4. नीचे दो कथन दिए गए हैं, जिनमें एक को अभिकथन (A) तथा दूसरे को कारण (R) के रूप में अंकित किया गया है। इन कथनों को पढ़िए और नीचे दिए गए विकल्पों में से सही उत्तर चुनिए :

अभिकथन (A) : नेपाल के राजा को 2002 में भंग की गई संसद को बहाल करने के लिए बाध्य किया गया।

कारण (R) : अतीत में नेपाल एक हिन्दू राज्य था।

विकल्प :

(A) अभिकथन (A) और कारण (R) दोनों सही हैं और कारण (R), अभिकथन (A) की सही व्याख्या करता है।

(B) अभिकथन (A) और कारण (R) दोनों सही हैं, परंतु कारण (R), अभिकथन (A) की सही व्याख्या ***नहीं*** करता है।

(C) अभिकथन (A) सही है, परंतु कारण (R) ग़लत है।

(D) अभिकथन (A) ग़लत है, परंतु कारण (R) सही है।

5. कॉलम A में दी गई घटनाओं का कॉलम B में दिए गए उनसे संबंधित वर्षों से सही मिलान कीजिए।

	कॉलम A		*कॉलम B*
1.	बर्लिन की दीवार का टूटना	(i)	1991
2.	भारत-रूस रणनीतिक समझौता	(ii)	1989
3.	अफगानिस्तान पर सोवियत संघ का आक्रमण	(iii)	2001
4.	सोवियत संघ का विघटन	(iv)	1979

कूट :

(A) 1-(ii), 2-(iii), 3-(iv), 4-(i)

(B) 1-(iii), 2-(ii), 3-(iv), 4-(i)

(C) 1-(i), 2-(iii), 3-(ii), 4-(iv)

(D) 1-(iv), 2-(iii), 3-(i), 4-(ii)

4. Given below are two statements, one is labelled as Assertion (A) and other as Reason (R). Read these statements and choose the correct answer from the options given below :

Assertion (A) : The King of Nepal was forced to restore the House of Representatives, which had been dissolved in 2002.

Reason (R) : Nepal had been a Hindu kingdom in the past.

Options :

(A) Both Assertion (A) and Reason (R) are true and Reason (R) is the correct explanation of the Assertion (A).

(B) Both Assertion (A) and Reason (R) are true, but Reason (R) is ***not*** the correct explanation of the Assertion (A).

(C) Assertion (A) is true, but Reason (R) is false.

(D) Assertion (A) is false, but Reason (R) is true.

5. Match the events given in Column A correctly with their respective years given in Column B.

	Column A		*Column B*
1.	The Berlin Wall was broken	(i)	1991
2.	Indo-Russia strategic agreement	(ii)	1989
3.	The Soviet invasion of Afghanistan	(iii)	2001
4.	Disintegration of the Soviet Union	(iv)	1979

Codes :

(A) 1-(ii), 2-(iii), 3-(iv), 4-(i)

(B) 1-(iii), 2-(ii), 3-(iv), 4-(i)

(C) 1-(i), 2-(iii), 3-(ii), 4-(iv)

(D) 1-(iv), 2-(iii), 3-(i), 4-(ii)

6. रूस में सत्तावादी, समाजवादी व्यवस्था से एक लोकतांत्रिक पूँजीवादी व्यवस्था में हुए संक्रमण को क्या कहा जाता है ?

(A) रूसी क्रान्ति

(B) शॉक थेरेपी

(C) वारसा पैक्ट

(D) विघटन

7. निम्नलिखित में से कौन-सा नेता भारतीय जनसंघ का संस्थापक था ?

(A) दीनदयाल उपाध्याय

(B) बलराज मधोक

(C) श्यामा प्रसाद मुखर्जी

(D) अटल बिहारी वाजपेयी

8. निम्नलिखित में से केरल के उस कम्युनिस्ट नेता का नाम चुनिए जो 1952 में सांसद भी थे।

(A) पी.सी. जोशी

(B) अजय घोष

(C) पी. सुन्दरैया

(D) ए.के. गोपालन

9. 1944 में बड़े उद्योगपतियों के एक वर्ग द्वारा भारत में नियोजित अर्थव्यवस्था के लिए तैयार की गई योजना के प्रारूप का क्या नाम था ?

(A) ग्रैंड प्लान

(B) बॉम्बे प्लान

(C) इकोनॉमिक प्लान

(D) डेवलपमेंट प्लान

6. The process of transition in Russia from an authoritarian socialist system to a democratic capitalist system is known as :

(A) Russian Revolution

(B) Shock Therapy

(C) Warsaw Pact

(D) Disintegration

7. Who amongst the following leaders was the founder of Bharatiya Jana Sangh ?

(A) Deendayal Upadhyaya

(B) Balraj Madhok

(C) Shyama Prasad Mukherjee

(D) Atal Bihari Vajpayee

8. Choose from the following, the name of the Communist leader from Kerala who was also a Member of Parliament in 1952.

(A) P.C. Joshi

(B) Ajay Ghosh

(C) P. Sundarayya

(D) A.K. Gopalan

9. Choose the name of the plan drafted by a section of the big industrialists in 1944 for setting up a planned economy in India.

(A) Grand Plan

(B) Bombay Plan

(C) Economic Plan

(D) Development Plan

10. निम्नलिखित में से कौन-सा विचार प्रारम्भिक दौर में योजना का अंग ***नहीं*** था ?

(A) सहकारी कृषि

(B) आत्मनिर्भरता

(C) पूँजीवाद

(D) पंचवर्षीय योजनाएँ

11. निम्नलिखित का सही मिलान कीजिए :

1.	2019 की सरकार	(i)	भाजपा
2.	मंडल आयोग की सिफारिशों को लागू करना	(ii)	एन.डी.ए.
3.	गाँधीवादी समाजवाद	(iii)	नेशनल फ्रंट
4.	नए आर्थिक सुधार	(iv)	पी.वी. नरसिम्हा राव

कूट :

(A) 1-(ii), 2-(iv), 3-(i), 4-(iii)

(B) 1-(ii), 2-(iii), 3-(i), 4-(iv)

(C) 1-(iii), 2-(i), 3-(ii), 4-(iv)

(D) 1-(ii), 2-(iv), 3-(iii), 4-(i)

12. निम्नलिखित में से भारत के किस प्रधानमंत्री का कार्यकाल सबसे लम्बा था ?

(A) पी.वी. नरसिम्हा राव

(B) वी.पी. सिंह

(C) अटल बिहारी वाजपेयी

(D) मनमोहन सिंह

10. Which one of the following ideas was ***never*** a part of planning in the early phase ?

(A) Cooperative farming

(B) Self-sufficiency

(C) Capitalism

(D) Five-Year plans

11. Match the following correctly :

1.	The Government of 2019	(i)	BJP
2.	Implementation of the Recommendations of Mandal Commission	(ii)	NDA
3.	Gandhian Socialism	(iii)	National Front
4.	New Economic Reforms	(iv)	PV Narasimha Rao

Codes :

(A) 1-(ii), 2-(iv), 3-(i), 4-(iii)

(B) 1-(ii), 2-(iii), 3-(i), 4-(iv)

(C) 1-(iii), 2-(i), 3-(ii), 4-(iv)

(D) 1-(ii), 2-(iv), 3-(iii), 4-(i)

12. Who amongst the following worked as Prime Minister of India for the longest period ?

(A) P.V. Narasimha Rao

(B) V.P. Singh

(C) Atal Bihari Vajpayee

(D) Manmohan Singh

खण्ड ख

13. दक्षिण एशिया के किन्हीं चार देशों के नाम लिखिए। $4\times\frac{1}{2}=2$

14. श्रीलंका में जातीय संघर्ष के कोई दो कारण उजागर कीजिए। $2\times1=2$

15. 'क्योटो प्रोटोकॉल' का अर्थ स्पष्ट कीजिए। 2

16. स्वतंत्रता के प्रारम्भिक वर्षों में भारत में काँग्रेस पार्टी के प्रभुत्व की प्रकृति की व्याख्या कीजिए। 2

17. भारतीय विदेश नीति के कोई दो सिद्धांत उजागर कीजिए। $2\times1=2$

18. राजीव गाँधी-लोंगोवाल समझौते के किन्हीं दो प्रावधानों का वर्णन कीजिए। $2\times1=2$

खण्ड ग

19. (क) वैश्विक राजनीति का हिस्सा बनने वाली किन्हीं चार पर्यावरणीय चिंताओं को उजागर कीजिए। $4\times1=4$

अथवा

(ख) 1992 में हुए रियो सम्मेलन के किन्हीं दो परिणामों को उजागर कीजिए। $2\times2=4$

20. भारत में वैश्वीकरण के प्रतिरोध के किन्हीं दो कारणों को स्पष्ट कीजिए। $2\times2=4$

21. शॉक थेरेपी के कोई चार परिणाम लिखिए। $4\times1=4$

22. (क) 1969 में काँग्रेस पार्टी में हुए विभाजन के किन्हीं दो परिणामों का विश्लेषण कीजिए। $2\times2=4$

अथवा

(ख) 1971 के चुनावों के तुरंत बाद प्रधानमंत्री इन्दिरा गाँधी की लोकप्रियता के किन्हीं दो कारणों का विश्लेषण कीजिए। $2\times2=4$

23. 1977 के चुनावों के बाद जनता पार्टी एक स्थायी सरकार देने में क्यों असफल रही ? कारणों सहित स्पष्ट कीजिए। $2\times2=4$

SECTION B

13. Name any four countries of South Asia. $4 \times \frac{1}{2} = 2$

14. Highlight any two reasons for ethnic conflict in Sri Lanka. $2 \times 1 = 2$

15. Explain the meaning of 'Kyoto Protocol'. 2

16. Explain the nature of Congress dominance in India during the initial years of independence. 2

17. Highlight any two principles of the Indian foreign policy. $2 \times 1 = 2$

18. Describe any two provisions of the Rajiv Gandhi-Longowal Accord. $2 \times 1 = 2$

SECTION C

19. (a) Highlight any four environmental concerns that have become a part of global politics. $4 \times 1 = 4$

OR

(b) Highlight any two outcomes of the Rio Summit held in 1992. $2 \times 2 = 4$

20. Explain any two reasons for resistance to globalisation in India. $2 \times 2 = 4$

21. State any four consequences of shock therapy. $4 \times 1 = 4$

22. (a) Analyse any two consequences of the split in the Congress Party in 1969. $2 \times 2 = 4$

OR

(b) Analyse any two reasons for the popularity of Prime Minister Indira Gandhi immediately after the 1971 elections. $2 \times 2 = 4$

23. Why did the Janata Party fail to provide a stable government after the 1977 elections ? Explain with reasons. $2 \times 2 = 4$

खण्ड घ

24. नीचे दिए गए अवतरण को ध्यानपूर्वक पढ़िए और इस पर आधारित प्रश्नों के उत्तर दीजिए : *4×1=4*

"भारत के पहले प्रधानमंत्री जवाहरलाल नेहरू ने भारतीय विदेश नीति को बनाने और लागू करने में बहुत प्रभावशाली भूमिका निभाई। उनकी विदेश नीति का प्रमुख उद्देश्य बहुत मेहनत से प्राप्त की गई संप्रभुता को बचाए रखना, क्षेत्रीय अखंडता को बनाए रखना और तेज़ रफ़्तार से आर्थिक विकास करना था। नेहरू इन उद्देश्यों को अपनी विदेश नीति से प्राप्त करना चाहते थे।"

(i) भारत के प्रथम विदेश मंत्री का नाम चुनिए।

(A) सरदार वल्लभभाई पटेल

(B) जवाहरलाल नेहरू

(C) डॉ. बी.आर. अम्बेडकर

(D) रफ़ी अहमद किदवई

(ii) निम्नलिखित में से कौन-सा एक सिद्धांत भारतीय विदेश नीति का सिद्धांत ***नहीं*** था ?

(A) गुट-निरपेक्षता

(B) पंचशील

(C) संयुक्त राष्ट्र के लिए सम्मान

(D) पूँजीवाद

(iii) कौन-सी राजनीतिक पार्टी भारत की विदेश नीति को अमेरिका के पक्ष में बनाने की पक्षधर थी ?

(A) भारतीय राष्ट्रीय काँग्रेस पार्टी

(B) कम्युनिस्ट पार्टी ऑफ इंडिया

(C) भारतीय जनसंघ

(D) सोशलिस्ट पार्टी

(iv) गुट-निरपेक्ष आंदोलन (NAM) का प्रथम शिखर सम्मेलन निम्नलिखित में से कौन-से नगर में हुआ था ?

(A) नई दिल्ली

(B) काहिरा

(C) बेलग्रेड

(D) जकार्ता

SECTION D

24. Read the passage given below carefully and answer the questions based on it : *4×1=4*

"The first Prime Minister, Jawaharlal Nehru, exercised a profound influence in the formulation and implementation of India's foreign policy. The major objectives of his foreign policy were to preserve the hard-earned sovereignty, protect territorial integrity and promote rapid economic growth. Nehru wished to achieve these objectives through his foreign policy."

(i) Choose the name of the first Foreign Minister of India.

(A) Sardar Vallabhbhai Patel

(B) Jawaharlal Nehru

(C) Dr. B.R. Ambedkar

(D) Rafi Ahmad Kidwai

(ii) Which one of the following was ***not*** a principle of India's foreign policy ?

(A) Non-alignment

(B) Panchsheel

(C) Respect for the United Nations

(D) Capitalism

(iii) Which political party was in favour of a pro-US foreign policy ?

(A) Indian National Congress Party

(B) Communist Party of India

(C) Bharatiya Jana Sangh

(D) Socialist Party

(iv) In which of the following cities was the first NAM summit held ?

(A) New Delhi

(B) Cairo

(C) Belgrade

(D) Jakarta

25. **भारत** के दिए गए राजनीतिक रेखा-मानचित्र (पृष्ठ 17 पर) में, चार राज्यों को Ⓐ, Ⓑ, Ⓒ और Ⓓ के रूप में अंकित किया गया है। नीचे दी गई जानकारी के आधार पर इन राज्यों की पहचान कीजिए और अपनी उत्तर-पुस्तिका में इनके सही नाम, प्रयोग की गई जानकारी की क्रम संख्या तथा मानचित्र में दिया गया संबंधित अक्षर, नीचे दी गई तालिका के रूप में लिखिए : *4×1=4*

(i) वह राज्य जहाँ द्रविड़ आंदोलन हुआ था।

(ii) वह राज्य जो संत हरचन्द सिंह लोंगोवाल से संबंधित है।

(iii) वह राज्य जिसके पास काज़ी लैंदुप दोरजी खांगसरपा जैसा लोकप्रिय नेता था।

(iv) वह राज्य जहाँ लालडेंगा के नेतृत्व में अलगाववादी आंदोलन हुआ था।

प्रयोग की गई जानकारी की क्रम संख्या	मानचित्र में दिया गया संबंधित अक्षर	राज्य का नाम
(i)		
(ii)		
(iii)		
(iv)		

नोट : *निम्नलिखित प्रश्न केवल **दृष्टिबाधित परीक्षार्थियों** के लिए प्रश्न संख्या **25** के स्थान पर हैं :* *4×1=4*

(25.1) जम्मू-कश्मीर के भारत में विलय के बाद मार्च 1948 में वहाँ बने प्रधानमंत्री का नाम लिखिए।

(25.2) उस नेता का नाम लिखिए जिसने 1985 में प्रधानमंत्री राजीव गाँधी के साथ पंजाब समझौते पर हस्ताक्षर किए थे।

(25.3) मिज़ो नेशनल फ्रंट के संस्थापक का नाम लिखिए।

(25.4) पूर्वोत्तर के किन्हीं दो राज्यों के नाम लिखिए।

प्रश्न सं. 25 के लिए

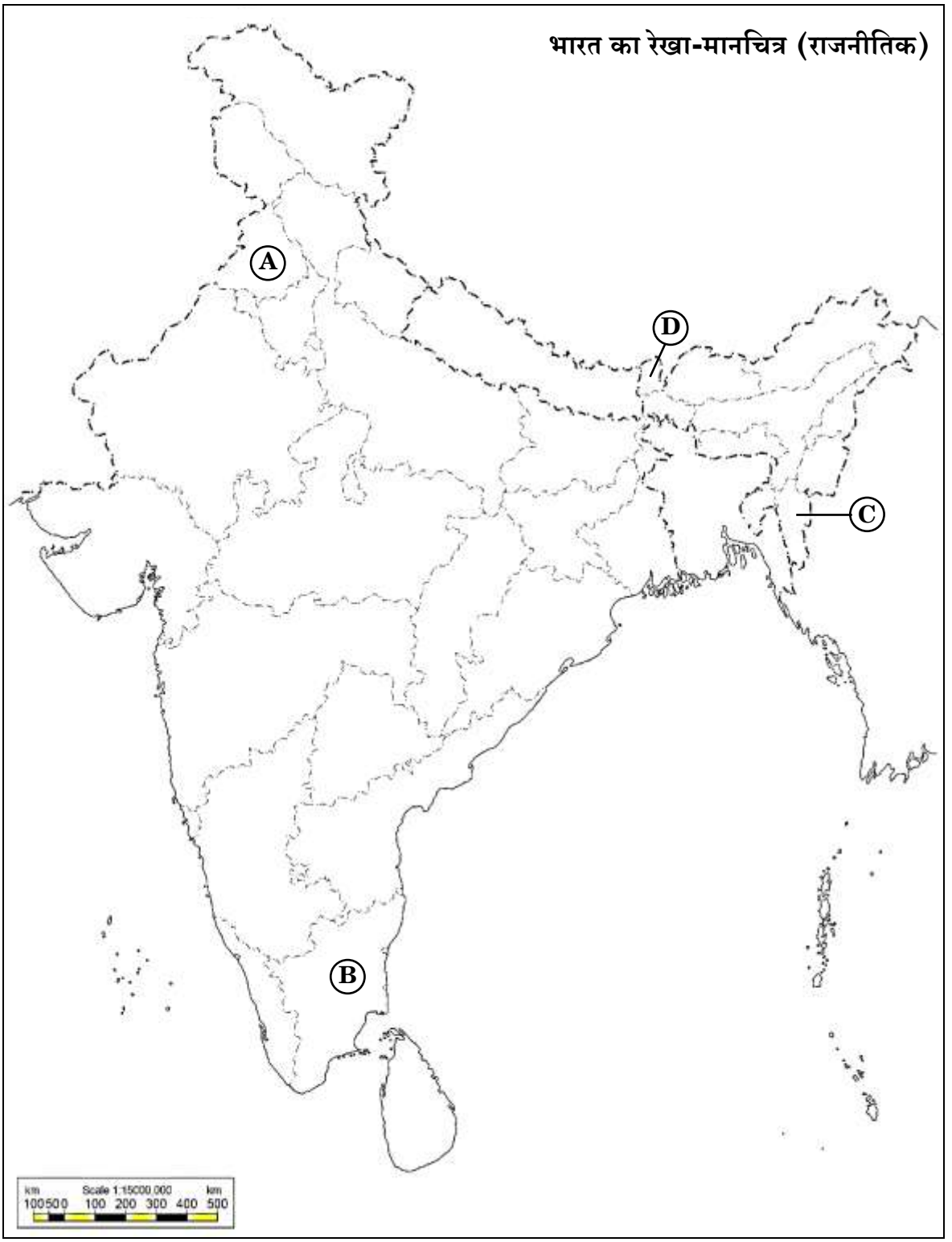
भारत का रेखा-मानचित्र (राजनीतिक)
A
B
C
D
km
Scale 1:15000,000
km
100500
100 200 300 400 500

25. In the given political outline map of **India** (on page 19), four states have been marked as Ⓐ, Ⓑ, Ⓒ and Ⓓ. Identify these States on the basis of the information given below and write their correct names in your answer-book along with the respective serial number of the information used and the concerned alphabet given in the map, as per the following format : *4×1=4*

(i) The state which witnessed the Dravidian movement.

(ii) The state to which Sant Harchand Singh Longowal belonged.

(iii) The state which had Kazi Lhendup Dorji Khangsarpa as its popular leader.

(iv) The state which witnessed a secessionist movement under the leadership of Laldenga.

Serial number of the information used	Concerned alphabet given in the map	Name of the State
(i)		
(ii)		
(iii)		
(iv)		

Note : *The following questions are for the* ***Visually Impaired Candidates*** *only, in lieu of Q. No.* ***25*** *:* *4×1=4*

(25.1) Name the Prime Minister of Jammu and Kashmir who took over in March 1948 after its merger with India.

(25.2) Name the leader who had signed the Punjab Accord with Prime Minister Rajiv Gandhi in 1985.

(25.3) Name the founder of the Mizo National Front.

(25.4) Name any two states of the North East.

For question no. 25

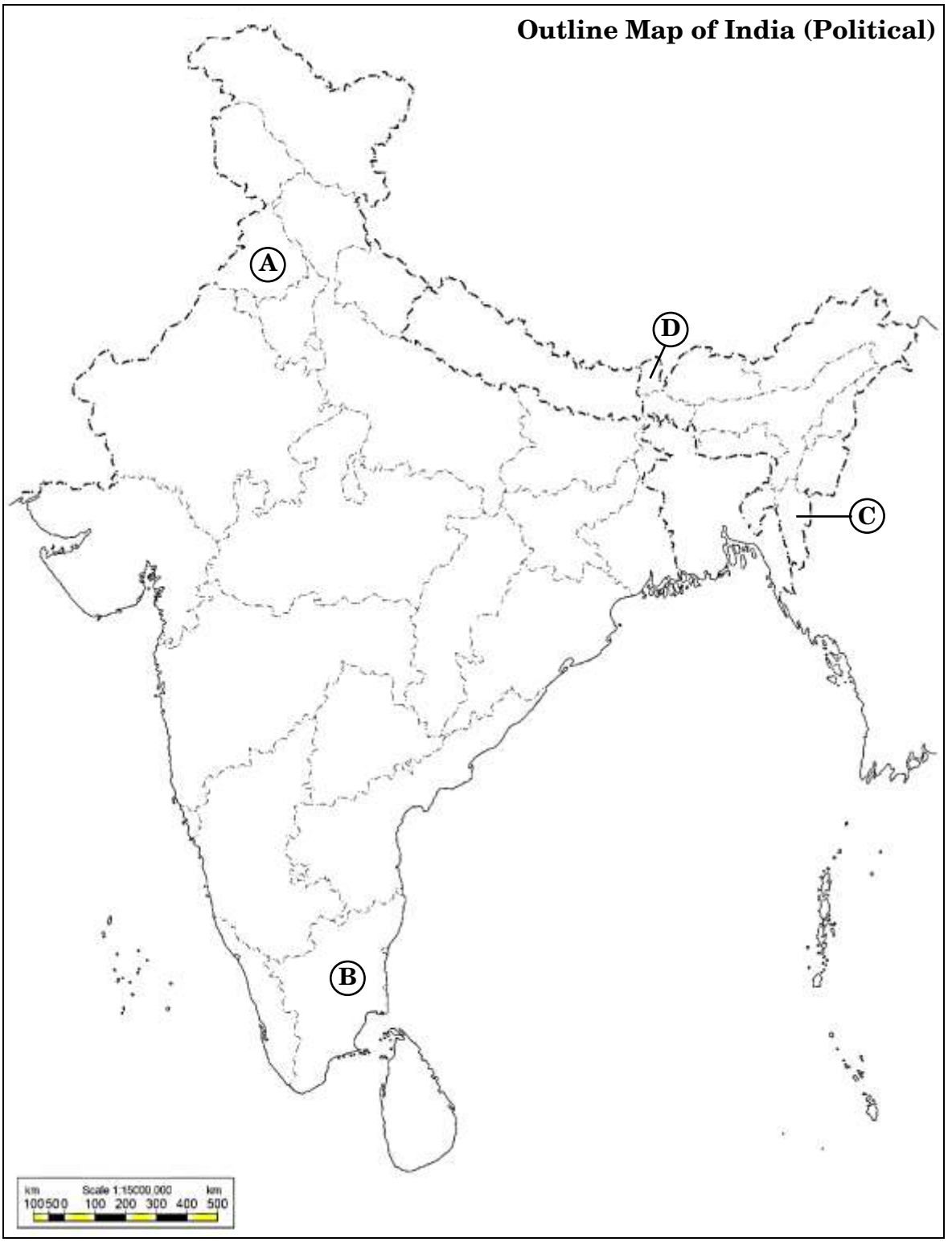

26. नीचे दिए गए कार्टून का ध्यानपूर्वक अध्ययन कीजिए और इस पर आधारित प्रश्नों के उत्तर दीजिए : *4*



(i) कार्टून में दिखाए गए ड्रैगन और दीवार किस देश को दर्शाते हैं ?

(ii) ड्रैगन का चेहरा विश्व को क्या दर्शाता है ?

(iii) इस कार्टून से क्या संदेश मिलता है ? स्पष्ट कीजिए।

नोट : *निम्नलिखित प्रश्न केवल* ***दृष्टिबाधित परीक्षार्थियों*** *के लिए प्रश्न संख्या* ***26*** *के स्थान पर हैं :* *4*

(26.1) लोकप्रिय ब्रांड सोनी, कैनन और सुज़ुकी किस देश से सम्बन्ध रखते हैं ?

(26.2) 'हान नदी पर चमत्कार' कहावत का सम्बन्ध किस देश से है ?

(26.3) चीन के कौन-से नेता से '*लाल किताब*' का सम्बन्ध है ?

(26.4) यूरोपीय संघ का कौन-सा एक देश संयुक्त राष्ट्र सुरक्षा परिषद का स्थायी सदस्य है ?

26. Study the cartoon given below carefully and answer the questions based on it : *4*



(i) Which country is being depicted by the wall and dragon shown in the cartoon ?

(ii) What does the face of the dragon express to the world ?

(iii) Explain the message conveyed by this cartoon.

Note : *The following questions are for the* ***Visually Impaired Candidates*** *only, in lieu of Q. No.* ***26*** *:* *4*

(26.1) To which country do the popular brands like Sony, Canon and Suzuki belong ?

(26.2) To which country is the phrase 'Miracle on the Han River' related ?

(26.3) The *Red Book* is related to which leader of China ?

(26.4) Which one member country of the European Union is a permanent member of the UN Security Council ?

खण्ड ङ

27. (क) संयुक्त राष्ट्र सुरक्षा परिषद का नया सदस्य बनने के लिए किसी देश के लिए आवश्यक कोई चार योग्यताएँ सुझाइए। $4\times1\frac{1}{2}=6$

अथवा

(ख) संयुक्त राष्ट्र को एक प्रभावशाली अन्तर्राष्ट्रीय संगठन बनाने के लिए कोई चार सुधार सुझाइए। $4\times1\frac{1}{2}=6$

28. (क) "अपारम्परिक सुरक्षा की धारणा कुल मिलाकर मानव सुरक्षा की धारणा है।" व्याख्या कीजिए। *6*

अथवा

(ख) भारत की वर्तमान सुरक्षा रणनीति के किन्हीं चार घटकों की व्याख्या कीजिए। $4\times1\frac{1}{2}=6$

29. (क) स्वतंत्रता के तुरन्त बाद भारत ने जिन तीन चुनौतियों का सामना किया, उनका वर्णन कीजिए। $3\times2=6$

अथवा

(ख) अन्तरिम सरकार द्वारा सभी देशी रियासतों को भारतीय संघ में लाने के लिए अपनाई गई प्रक्रिया और दृष्टिकोण का वर्णन कीजिए। *6*

30. (क) अन्य पिछड़ा वर्ग (ओ.बी.सी.) के राजनीतिक उदय के किन्हीं तीन कारणों की व्याख्या कीजिए। $3\times2=6$

अथवा

(ख) भारतीय राजनीति में भारतीय जनता पार्टी के राजनीतिक उभार के किन्हीं तीन कारणों की व्याख्या कीजिए। $3\times2=6$

SECTION E

27. (a) Suggest any four qualifications required by a country to be a new member of the UN Security Council. $4 \times 1\frac{1}{2} = 6$

OR

(b) Suggest any four reforms to make the United Nations an effective international organisation. $4 \times 1\frac{1}{2} = 6$

28. (a) "The Non-traditional Notion of Security is all about Human Security." Explain. *6*

OR

(b) Explain any four components of India's present security strategy. $4 \times 1\frac{1}{2} = 6$

29. (a) Describe any three challenges faced by India just after its independence. $3 \times 2 = 6$

OR

(b) Describe the process and approach adopted by the interim government to bring all the princely states into the Indian Union. *6*

30. (a) Explain any three reasons for the political rise of Other Backward Classes (OBCs). $3 \times 2 = 6$

OR

(b) Explain any three reasons for the political rise of the Bharatiya Janata Party in Indian politics. $3 \times 2 = 6$